小学校５年生　＊単元確認テスト③＊			魚のたんじょう
組　　番	氏 名		／10 点

1　かいぼうけんび鏡の使い方について説明しています。
ア、イに当てはまる名前を書きましょう。　（１点×２）

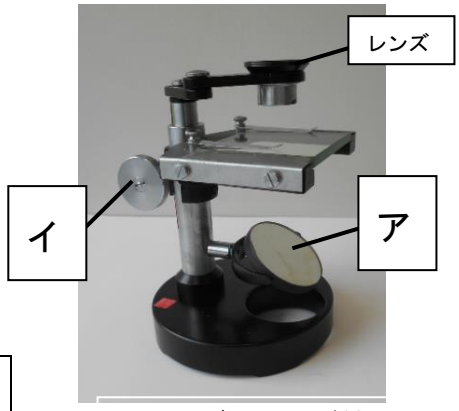

＜かいぼうけんび鏡＞

①　レンズをのぞきながら、アの向きを変え、明るく見えるようにする。
②　観察する物をステージの中央に置き、レンズをのぞきながらイでレンズを上げ下げして、よく見えるところで止める。

ア	イ

2　けんび鏡はどこに置いて使いますか。正しい方に〇をつけましょう。　（１点）
（　　）日光が直せつ当たる、明るいところ。
（　　）日光が直せつ当たらない、明るいところ。

3　たまごと精子が結びつくことを何と言うか書きましょう。
（１点）

4　メダカのたんじょうについて調べます。
（１）　下のア、イのメダカで、おすはどちらですか。おすのメダカに〇をつけましょう。
ア　（　　）　　イ（　　）　（１点）

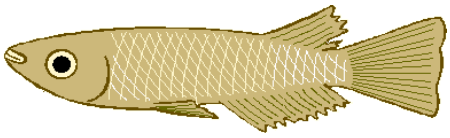



（２）　下の①②③④はメダカのたまごの成長（せいちょう）の様子をスケッチしたものです。

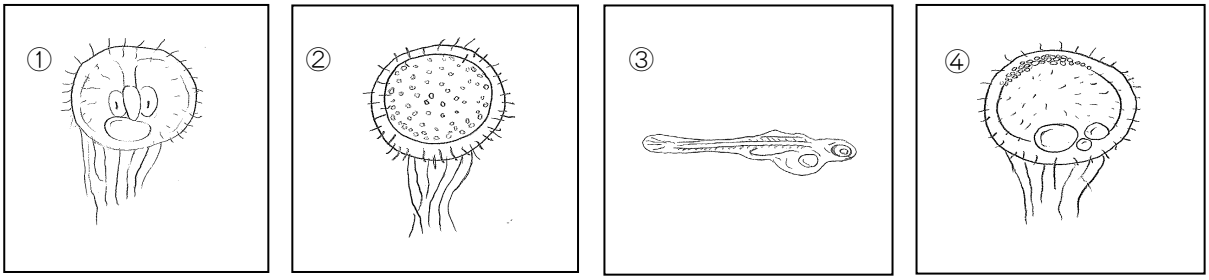

成長（せいちょう）するじゅんに①②③④をならべかえましょう。　（全正２点）

（３）　たまごから生まれたばかりの子メダカには、はらに大きなふくらみがあります。この中には何が入っていますか。　（１点）

（４）また、それは何のためにありますか。　（２点）